Das Koordinatensystem

1 Fülle die Lücken aus. Färbe die Einheiten auf der x-Achse rot und auf der y-Achse blau. Trage die Punkte in das Koordinatensystem ein

a) A(+1|+2)

1 Einheit nach rechts

2 Einheiten nach _____

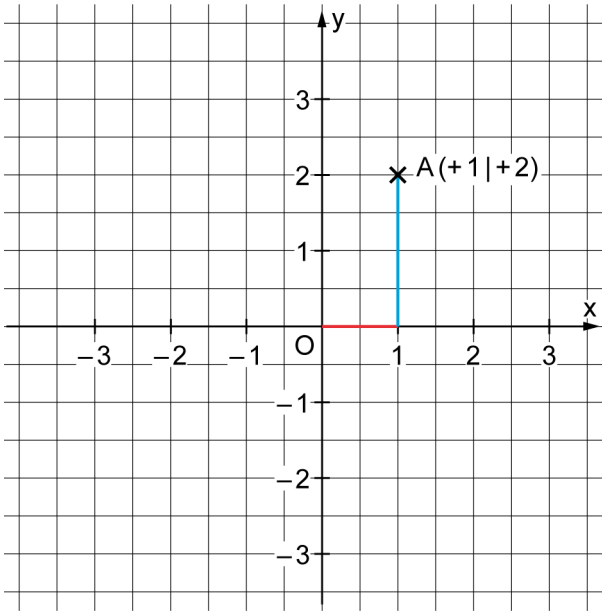

b) B(−2|+1)

2 Einheiten nach links

1 Einheit nach _____

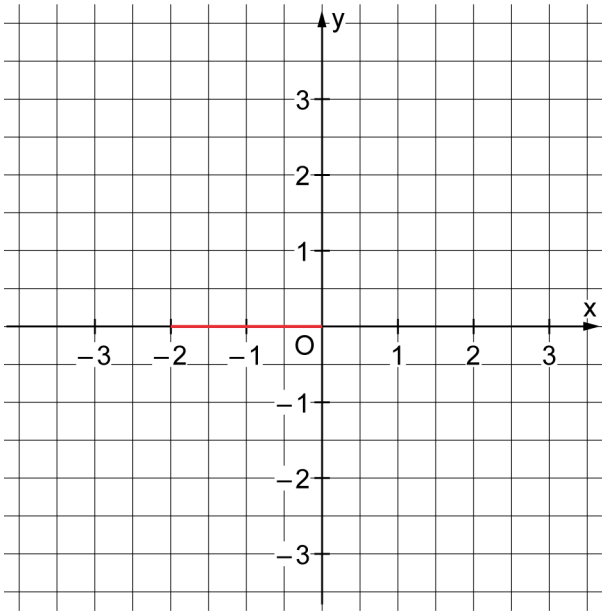

c) C(+2|−2)

_____ Einheiten nach _____

_____ Einheiten nach _____

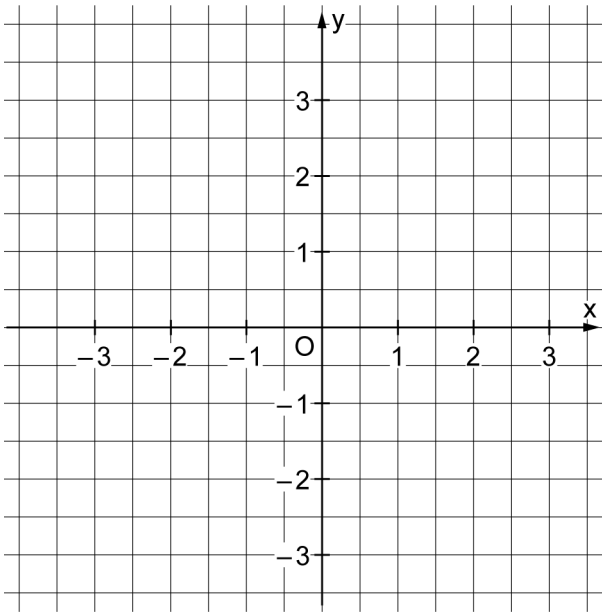

d) D(−1|−2)

_____ Einheit nach _____

_____ Einheiten nach _____

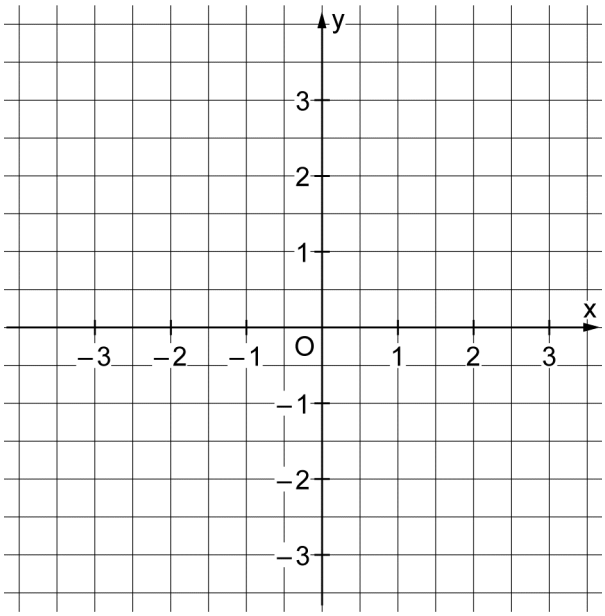

© Ernst Klett Verlag GmbH, Stuttgart 2016 | www.klett.de | Alle Rechte vorbehalten.
Von dieser Druckvorlage ist die Vervielfältigung für den eigenen Unterrichtsgebrauch gestattet. Die Kopiergebühren sind abgegolten.

Schnittpunkt 6 – Differenzierende Ausgabe
Baden-Württemberg
ISBN 978-3-12-744361-5

Das Koordinatensystem – Lösungen

1

a) A(+1|+2)
1 Einheit nach rechts
2 Einheiten nach oben

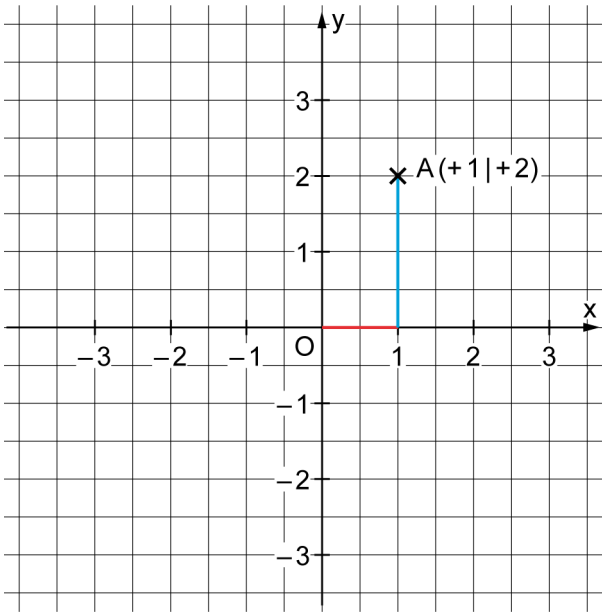

b) B(–2|+1)
2 Einheiten nach links
1 Einheit nach oben

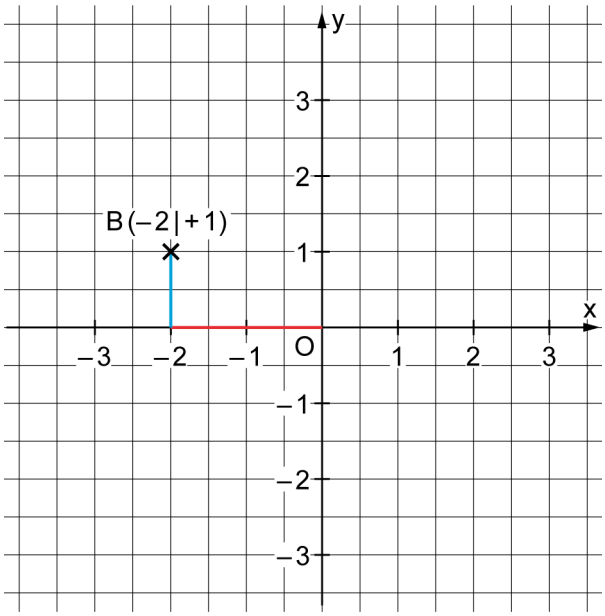

c) C(+2|–2)
2 Einheiten nach rechts
2 Einheiten nach unten

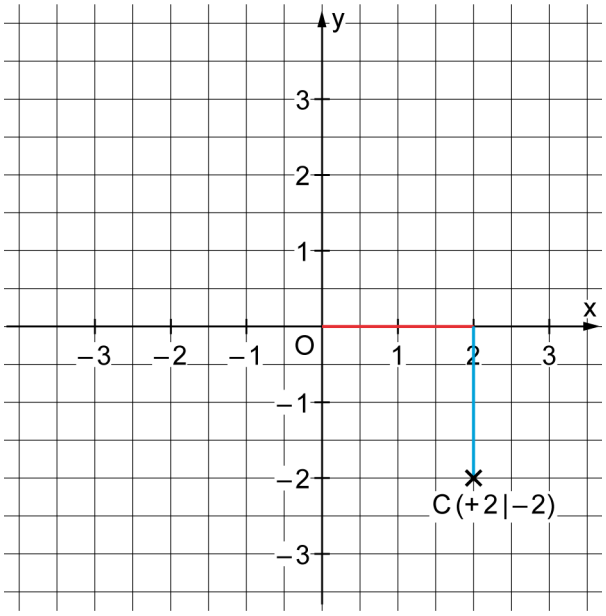

d) D(–1|–2)
1 Einheit nach links
2 Einheiten nach unten

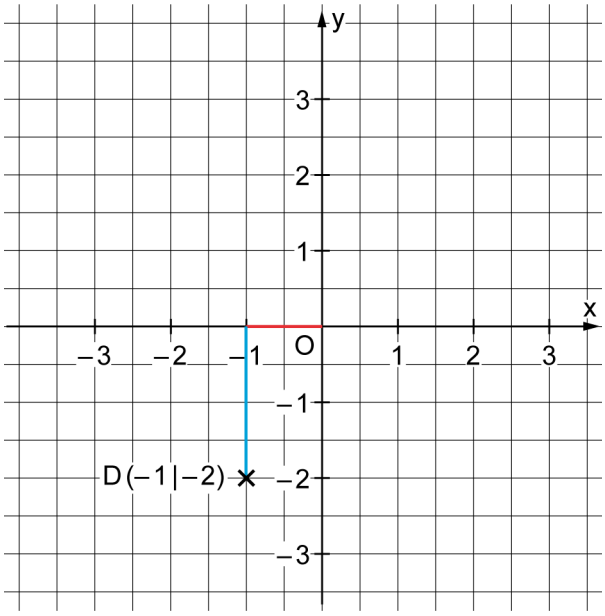

© Ernst Klett Verlag GmbH, Stuttgart 2016 | www.klett.de | Alle Rechte vorbehalten.
Von dieser Druckvorlage ist die Vervielfältigung für den eigenen Unterrichtsgebrauch gestattet. Die Kopiergebühren sind abgegolten.

Schnittpunkt 6 – Differenzierende Ausgabe
Baden-Württemberg
ISBN 978-3-12-744361-5