Zunahme und Abnahme

1 Verbinde mit der passenden Veränderung und färbe.

Eine Person gibt 5 € aus.		Die Temperatur steigt um 5 °C.
	+5	
Jonas hat 5 kg zugenommen.		Der Fahrstuhl fährt 5 Etagen nach unten.
	−5	
Die Temperatur fällt um 5 °C.		Der Wasserstand steigt um 5 cm.

2 Ergänze den fehlenden Wert.

a)
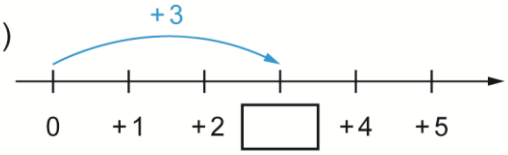

b)
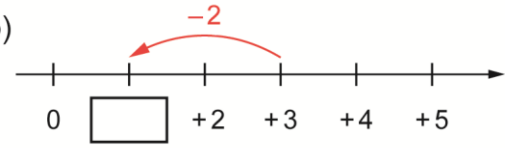

c)
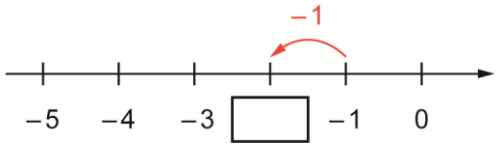

d)
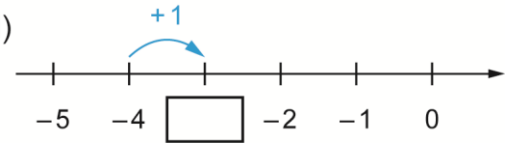

3 Ergänze die fehlende Größe.

a)
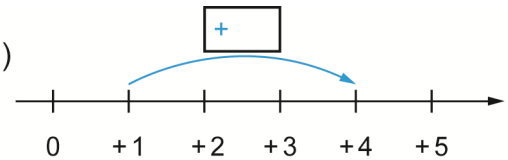

b)
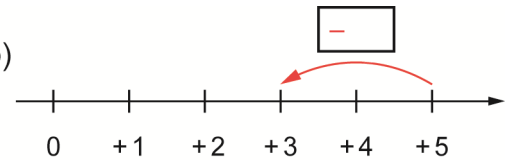

c)
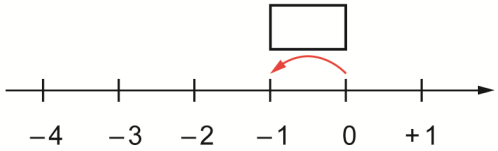

d)
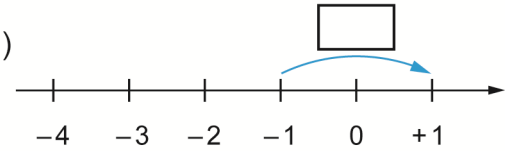

© Ernst Klett Verlag GmbH, Stuttgart 2016 | www.klett.de | Alle Rechte vorbehalten.
Von dieser Druckvorlage ist die Vervielfältigung für den eigenen Unterrichtsgebrauch gestattet. Die Kopiergebühren sind abgegolten.

Schnittpunkt 6 – Differenzierende Ausgabe
Baden-Württemberg
ISBN 978-3-12-744361-5

Zunahme und Abnahme – Lösungen

1

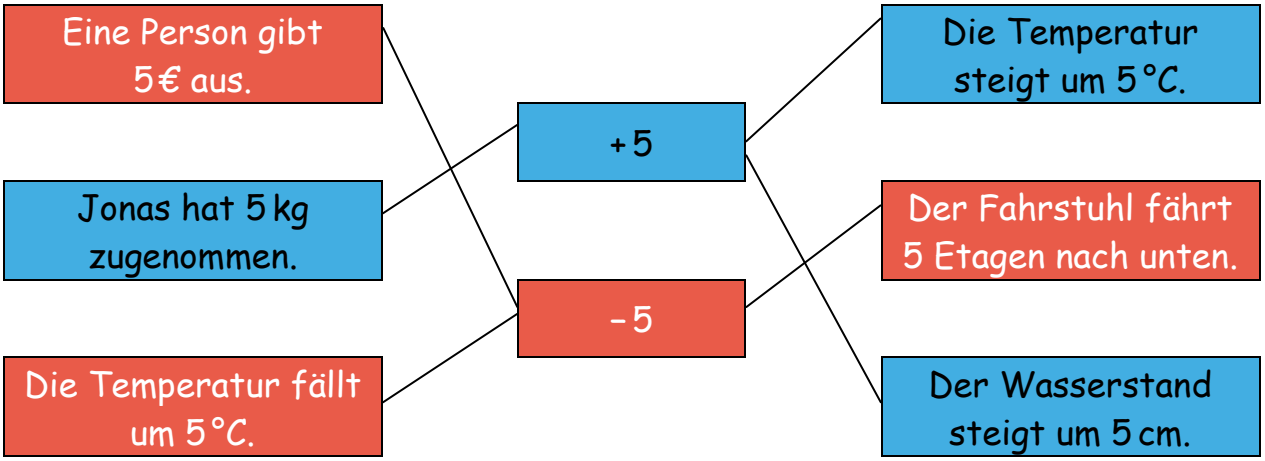

2

a)

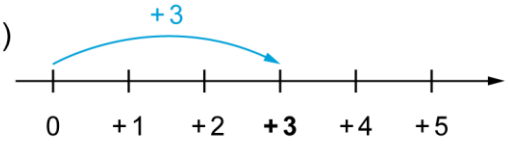

b)

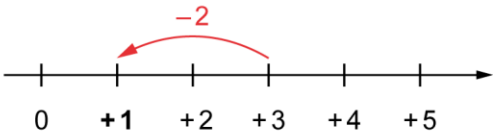

c)

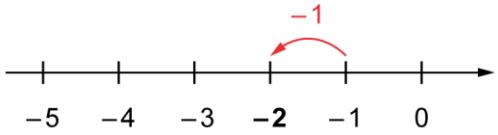

d)

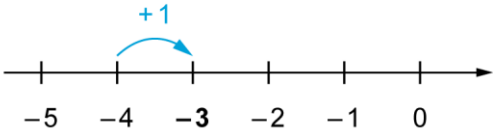

3

a)

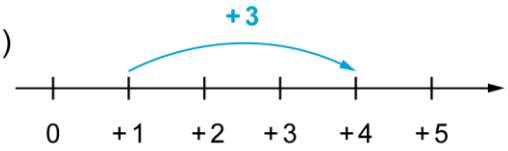

b)

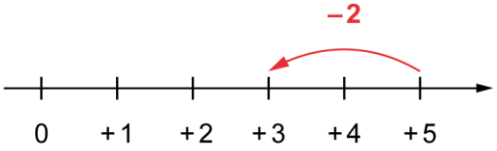

c)

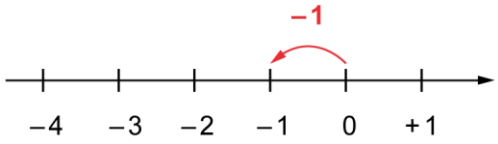

d)

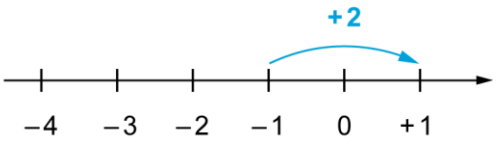

© Ernst Klett Verlag GmbH, Stuttgart 2016 | www.klett.de | Alle Rechte vorbehalten.
Von dieser Druckvorlage ist die Vervielfältigung für den eigenen Unterrichtsgebrauch gestattet. Die Kopiergebühren sind abgegolten.

Schnittpunkt 6 – Differenzierende Ausgabe
Baden-Württemberg
ISBN 978-3-12-744361-5