Rationale Zahlen vergleichen und ordnen

1

a) Verbinde die Temperaturen mit den passenden Thermometern.

Freiburg	Ihringen	Todtnau	Belchen	Titisee
+2 °C	+3 °C	-2 °C	-8 °C	-4 °C

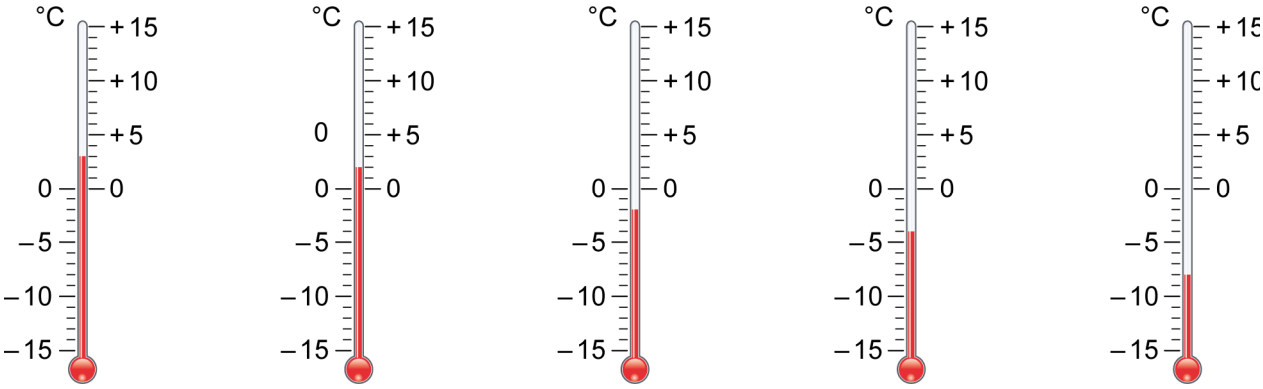

b) Ordne die Temperaturen von der niedrigsten zur höchsten Temperatur.

-8 °C < _____ < _____ < _____ < _____

2

a) Lies die Temperaturen ab.

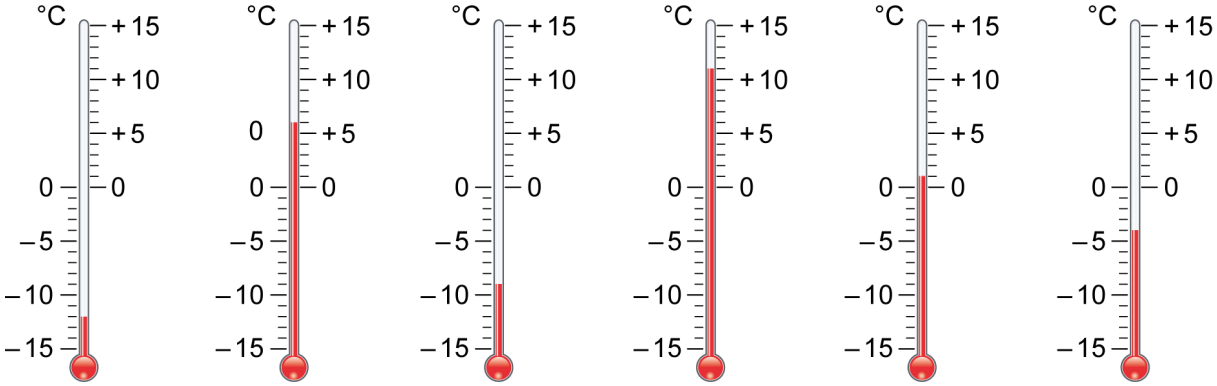

_____ _____ _____ _____ _____ _____

b) Ordne die Temperaturen von der niedrigsten zur höchsten Temperatur.

_____ < _____ < _____ < _____ < _____ < _____ < _____ < _____ < _____ < _____

© Ernst Klett Verlag GmbH, Stuttgart 2016 | www.klett.de | Alle Rechte vorbehalten.
Von dieser Druckvorlage ist die Vervielfältigung für den eigenen Unterrichtsgebrauch gestattet. Die Kopiergebühren sind abgegolten.

Schnittpunkt 6 – Differenzierende Ausgabe
Baden-Württemberg
ISBN 978-3-12-744361-5

Rationale Zahlen vergleichen und ordnen – Lösungen

1

a)

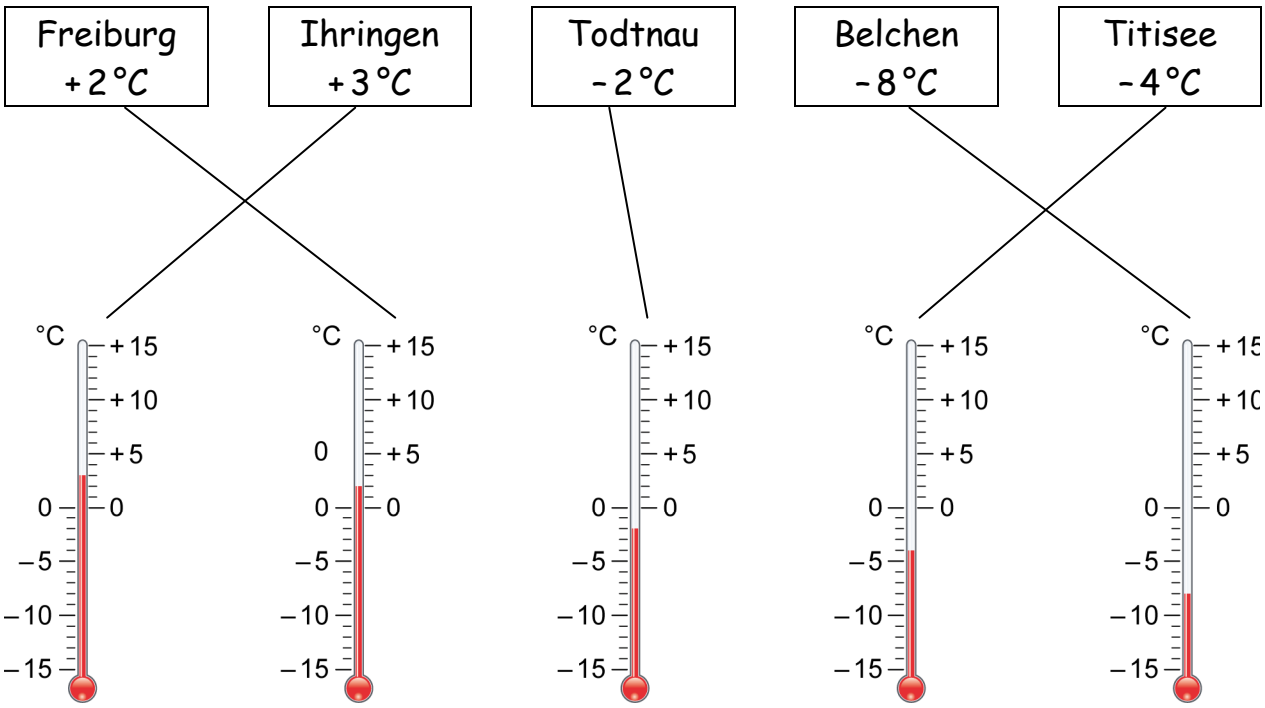

b) −8 °C < −4 °C < −2 °C < +2 °C < +3 °C

2

a)

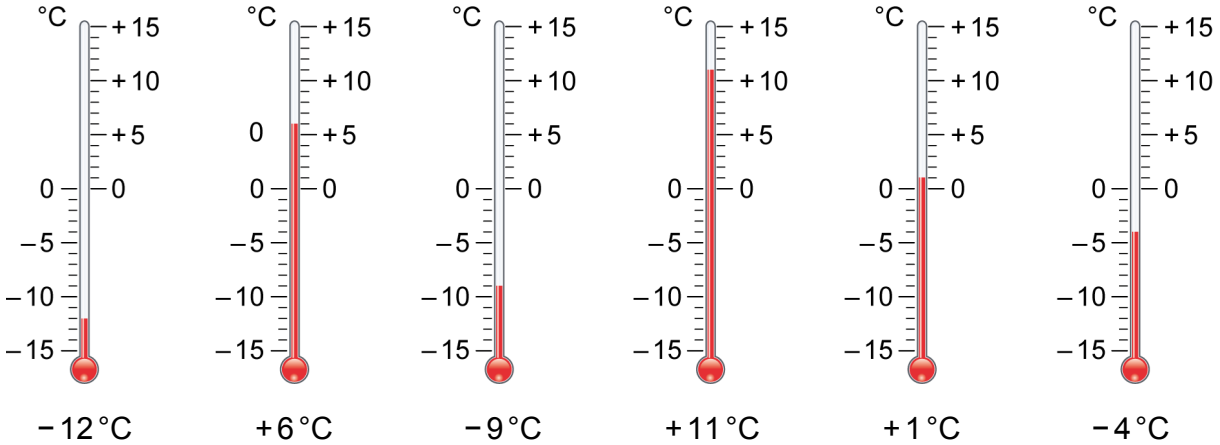

b) −12 °C < −9 °C < −4 °C < +1 °C < +6 °C < +11 °C

© Ernst Klett Verlag GmbH, Stuttgart 2016 | www.klett.de | Alle Rechte vorbehalten.
Von dieser Druckvorlage ist die Vervielfältigung für den eigenen Unterrichtsgebrauch gestattet. Die Kopiergebühren sind abgegolten.

Schnittpunkt 6 – Differenzierende Ausgabe
Baden-Württemberg
ISBN 978-3-12-744361-5