Ganze Zahlen

1

a) Welche Temperatur zeigt das Thermometer an?

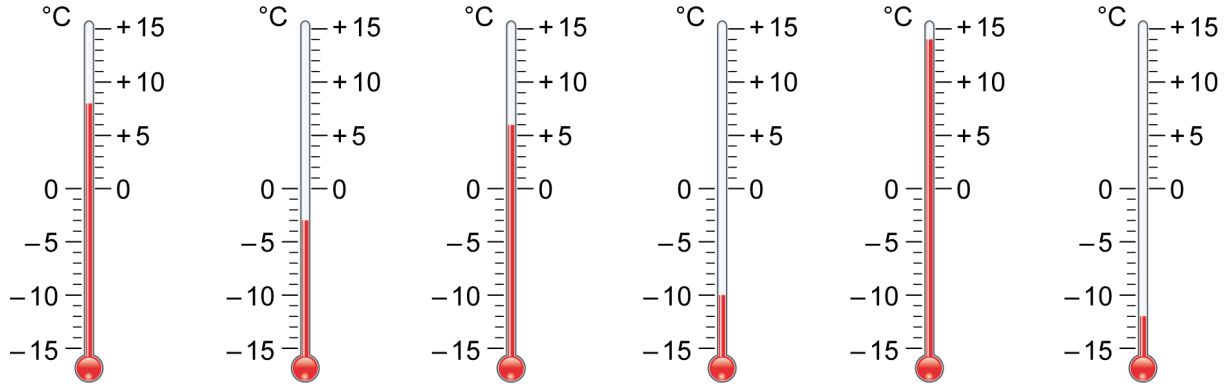

+8 °C −3 °C ____ °C ____ °C ____ °C ____ °C

b) Auf welche Zahlen zeigen die Pfeile?

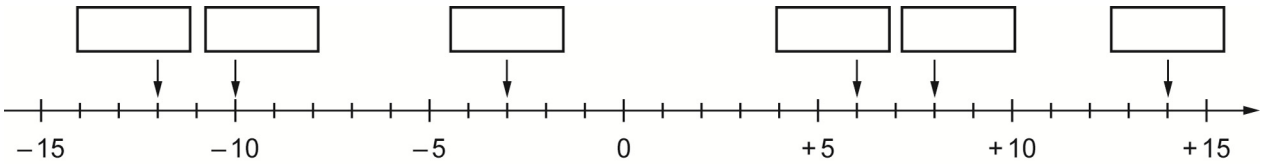

2

a) Färbe die Skala passend zur angegebenen Temperatur.

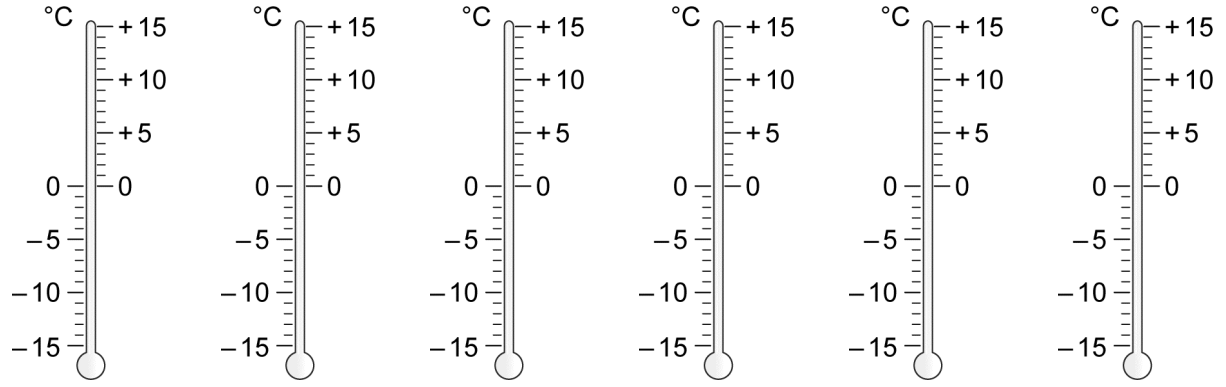

−9 °C −13 °C +7 °C −6 °C +1 °C −11 °C

b) Markiere die Zahlen −9; −13; +7; −6; +1 und −11 auf der Zahlengeraden.

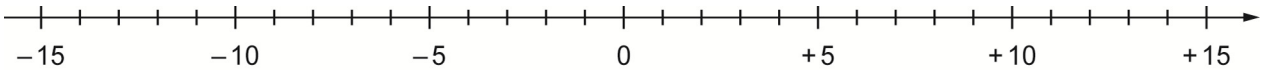

© Ernst Klett Verlag GmbH, Stuttgart 2016 | www.klett.de | Alle Rechte vorbehalten.
Von dieser Druckvorlage ist die Vervielfältigung für den eigenen Unterrichtsgebrauch gestattet. Die Kopiergebühren sind abgegolten.

Schnittpunkt 6 – Differenzierende Ausgabe
Baden-Württemberg
ISBN 978-3-12-744361-5

Ganze Zahlen – Lösungen

1

a)

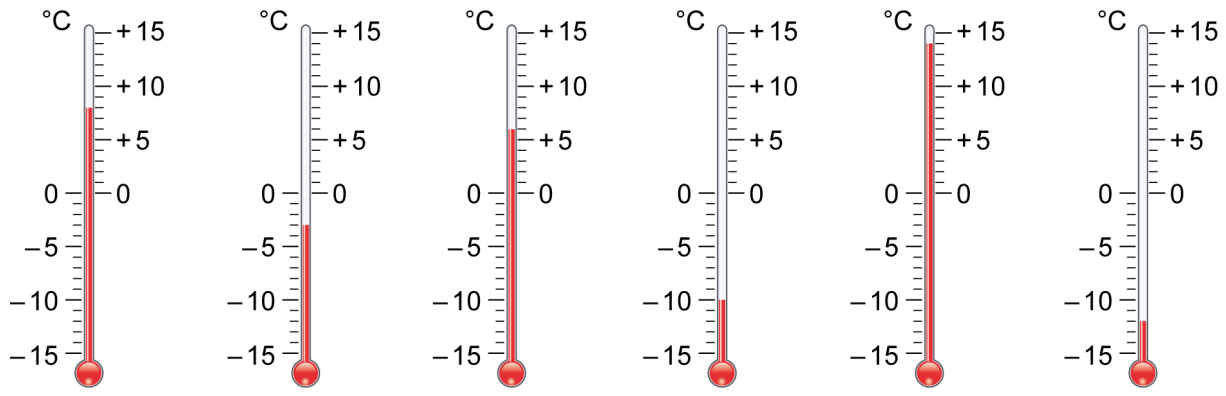

+8 °C | −3 °C | **+6 °C** | **−10 °C** | **+14 °C** | **−12 °C**

b)

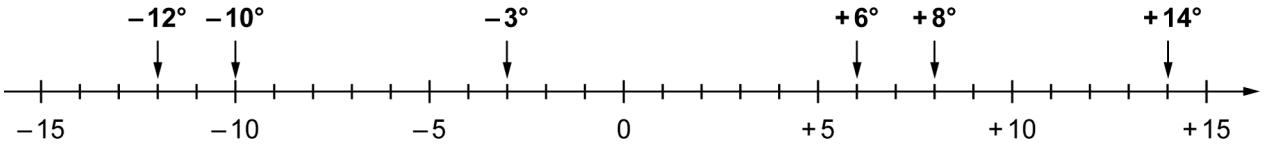

2

a)

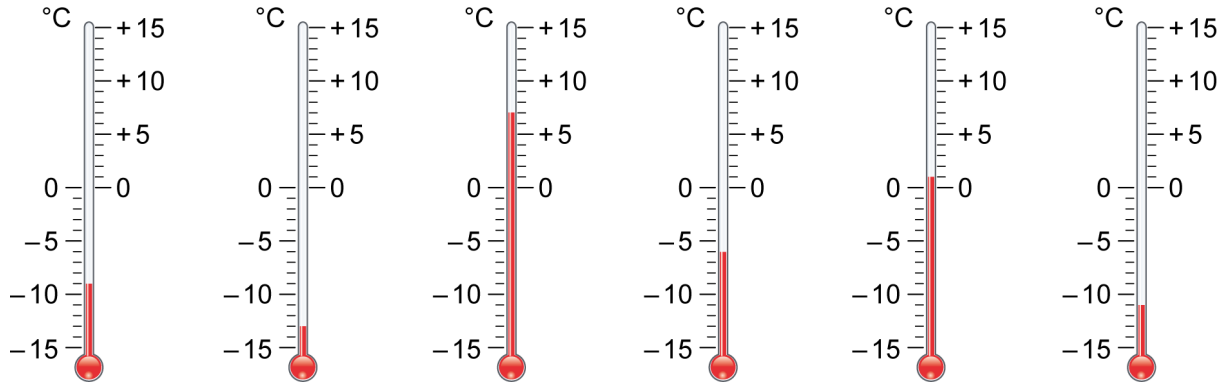

−9 °C | −13 °C | +7 °C | −6 °C | +1 °C | −11 °C

b)

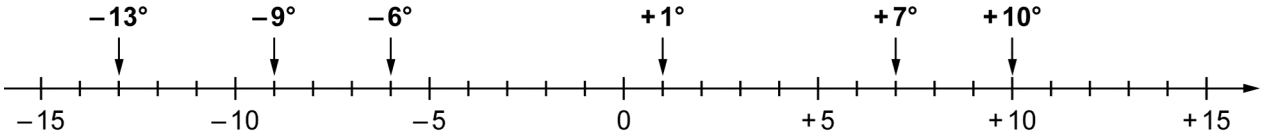

© Ernst Klett Verlag GmbH, Stuttgart 2016 | www.klett.de | Alle Rechte vorbehalten.
Von dieser Druckvorlage ist die Vervielfältigung für den eigenen Unterrichtsgebrauch gestattet. Die Kopiergebühren sind abgegolten.

Schnittpunkt 6 – Differenzierende Ausgabe
Baden-Württemberg
ISBN 978-3-12-744361-5