Diagramme und Häufigkeitstabellen

1 Das Säulendiagramm zeigt das Ergebnis einer Klassensprecherwahl. Jeder Schüler hatte zwei Stimmen. Fülle die Häufigkeitstabelle aus.

Name	Kaya	Vincent	Aline	Fynn
Anzahl Stimmen	13			

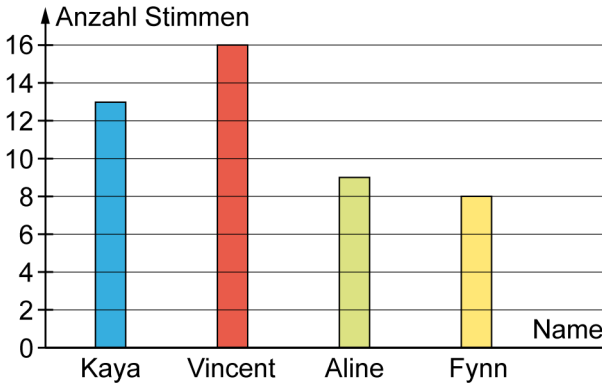

2 Zu den Lieblingsfarben der Klasse 6c hat Maren eine Häufigkeitsliste erstellt. Ergänze das Säulendiagramm.

Farbe	Rot	Blau	Violett	Grün	andere
Anzahl Schüler	6	7	3	2	5

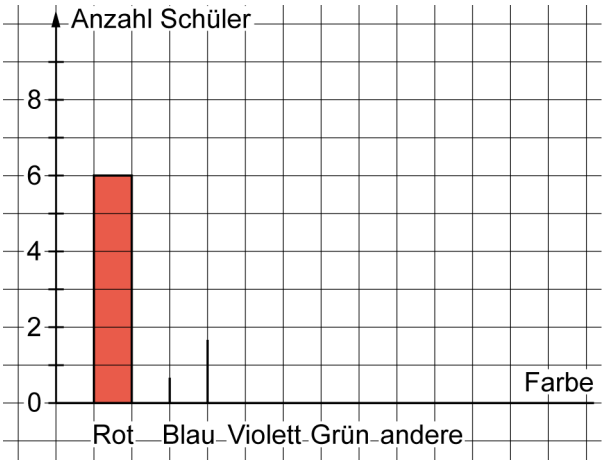

3 Martina untersucht die Häufigkeit der Vokale a, e, i, o, u in dem Satz „Heute ging ich mit meinem Hund Oskar spazieren.“. Dazu möchte sie eine Häufigkeitstabelle und ein Balkendiagramm erstellen. Hilf ihr dabei, indem du beides vervollständigst.

Vokal	a	e	i	o	u
Anzahl Schüler		6	5		

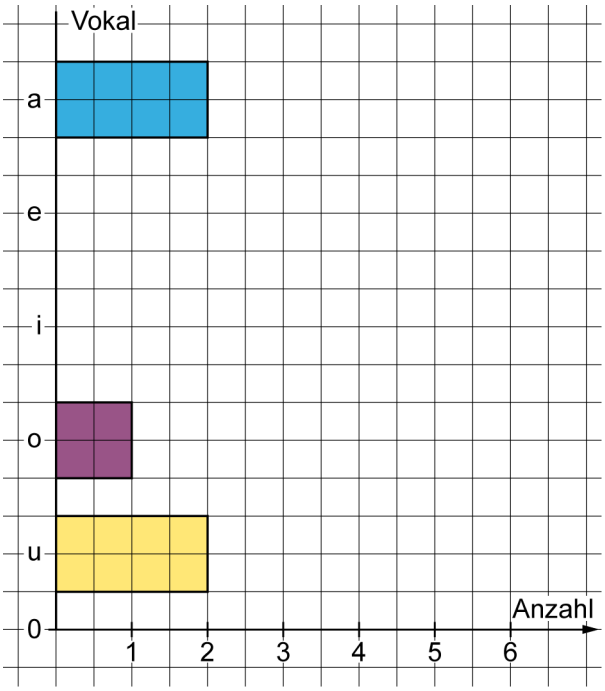

© Ernst Klett Verlag GmbH, Stuttgart 2016 | www.klett.de | Alle Rechte vorbehalten.
Von dieser Druckvorlage ist die Vervielfältigung für den eigenen Unterrichtsgebrauch gestattet. Die Kopiergebühren sind abgegolten.

Diagramme und Häufigkeitstabellen – Lösung

1

Name	Kaya	Vincent	Aline	Fynn
Anzahl Stimmen	13	**16**	**9**	**8**

2

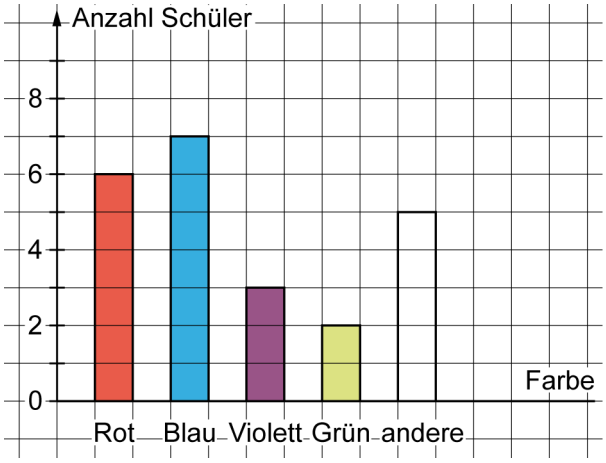

3

Vokal	a	e	i	o	u
Anzahl Schüler	**2**	6	5	**1**	**2**

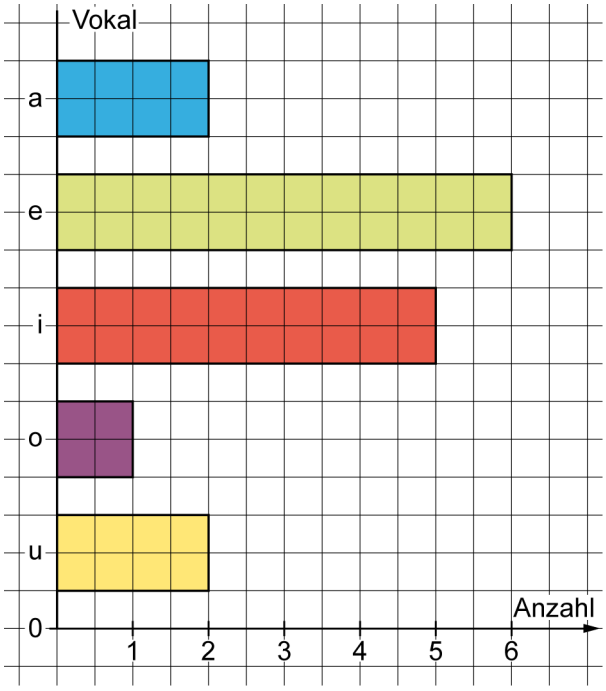

© Ernst Klett Verlag GmbH, Stuttgart 2016 | www.klett.de | Alle Rechte vorbehalten.
Von dieser Druckvorlage ist die Vervielfältigung für den eigenen Unterrichtsgebrauch gestattet. Die Kopiergebühren sind abgegolten.