Standpunkt

Online-Link
zum Standpunkt
742861-1401

Online-Links
zu Kapitel 7
742861-0007

Wo stehe ich?

Ich kann…

		gut	weniger gut	etwas	nicht mehr	Lerntipp!
1	den Umfang von Figuren ausrechnen,					→ S. 200; 206
2	die Kantenlänge von Körpern berechnen,					→ S. 206
3	mit den Begriffen Summe, Differenz, Produkt und Quotient umgehen,					→ S. 202; 203
4	Aufgaben mit Platzhaltern lösen,					→ S. 142; 152
5	Rechenausdrücke mit Klammern berechnen.					→ S. 204

Überprüfe deine Einschätzung

Lerntipp!
zu Aufgabe 3:
= Ergebnis
+ Summe
– Differenz
· Produkt
: Quotient

1 a) Berechne Umfang und Flächeninhalt.

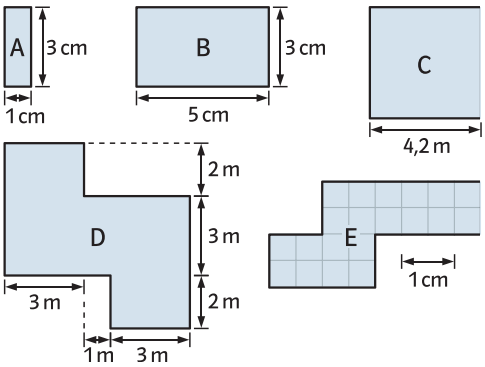

b) Der Umfang der Figur ist 12 cm.
Wie lang ist die fehlende Seite?

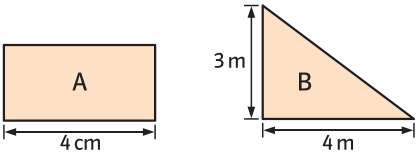

2 Welche Kantenlänge hat die Figur?

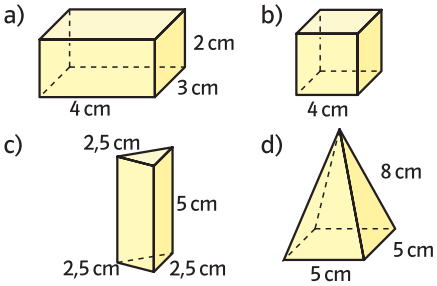

3 Berechne
a) die Summe aus 34 und 1,6;
b) den Quotienten aus 450 und 9;
c) das Produkt aus 12,5 und 2,4;
d) die Differenz aus $\frac{4}{5}$ und $\frac{2}{3}$.
e) Addiere 37 und 23.
f) Subtrahiere 10 von 87.
g) Multipliziere 2,5 mit 4.
h) Dividiere 56,7 durch 7.

4 Finde die Lösung.

Beispiel: 40 + ☐ = 55; ☐ = 15,
denn 40 + 15 = 55

a) 80 + ☐ = 116
b) ☐ + 34 = 112
c) 129 – ☐ = 76
d) ☐ – 34 = 56
e) 7 · ☐ = 105
f) ☐ · 13 = 117
g) 56 : ☐ = 8
h) ☐ : 11 = 9
i) ☐ · 9 = 2,7

5 Berechne im Heft.
a) 23 + 45 : 9
b) 3 · 9 – 23
c) 24 + 6 : 2 – 8
d) 384 – (290 – 4 · 20)
e) 1000 : 40 · 3 – 15 · 2
f) 210 + 7 · (163 – 43) – 150

→ Die Lösungen findest du auf Seite 215.

© Ernst Klett Verlag GmbH, Stuttgart 2010 | www.klett.de | Alle Rechte vorbehalten
Von dieser Druckvorlage ist die Vervielfältigung für den eigenen Unterrichtsgebrauch gestattet. Die Kopiergebühren sind abgegolten.

Autor: Colette Simon

Seite aus: Schnittpunkt 6 – Orientierungsstufe, Rheinland-Pfalz
ISBN 3-12-742861-2