Standpunkt

Online-Link
zum Standpunkt
742241-1321

Wo stehe ich?

Ich kann …

		gut	weniger gut	etwas	nicht mehr	Lerntipp!
1	Winkel mit vorgegebener Größe zeichnen.					→ Seite 177
2	Längenmaße umwandeln.					→ Seite 175
3	Flächenmaße umwandeln.					→ Seite 175
4	Zahlen runden.					→ Seite 173
5	den Flächeninhalt von Dreiecken berechnen.					→ Seite 63
6	den Flächeninhalt von Vierecken berechnen.					→ Seite 74
7	den Flächeninhalt von Kreisen berechnen.					→ Seite 74
8	den Flächeninhalt von zusammengesetzten Flächen berechnen.					→ Seite 76

Überprüfe deine Einschätzung.

1 Zeichne den Winkel.

a) $\alpha = 70°$ b) $\beta = 25°$
c) $\gamma = 125°$ d) $\delta = 210°$

2 Wandle in die angegebene Maßeinheit um.

a) 25 cm (m) b) 7 dm (cm)
c) 15 km (m) d) 0,48 m (cm)

3 Wandle in die angegebene Maßeinheit um.

a) 150 cm^2 (dm^2) b) 4000 dm^2 (m^2)
c) 3 cm^2 (mm^2) d) 1,25 m^2 (cm^2)

4 Runde auf die angegebene Stelle.

a) 31,4876; 40,788 58 auf Hundertstel
b) 15,699 97; 8,9782 auf Tausendstel

5 Berechne den Flächeninhalt des Dreiecks. (Maße in cm)

a)
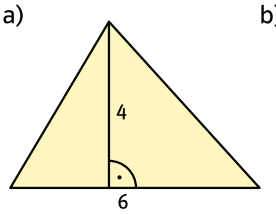

b)
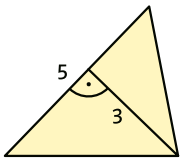

6 Berechne den Flächeninhalt des Vierecks.

a)
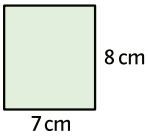

b)
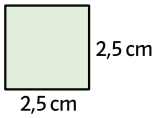

c)
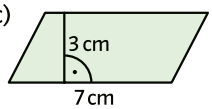

d)
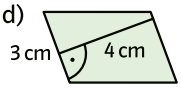

e)
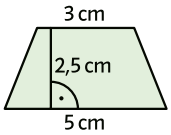

f)
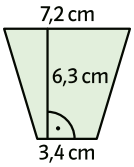

7 Berechne den Flächeninhalt des Kreises.

a) r = 7 dm b) d = 9 cm c) d = 6,4 m

8 Berechne den Flächeninhalt. (Maße in cm)

a)
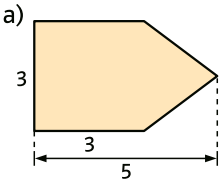

b)
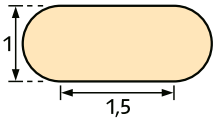

→ Die Lösungen findest du auf Seite 194.

© Ernst Klett Verlag GmbH, Stuttgart 2012 | www.klett.de | Alle Rechte vorbehalten
Von dieser Druckvorlage ist die Vervielfältigung für den eigenen Unterrichtsgebrauch gestattet. Die Kopiergebühren sind abgegolten.

Schnittpunkt 8 – Basisniveau, Niedersachsen
ISBN 978-3-12-742241-2