Standpunkt

Online-Link
zum Standpunkt
742151-1401

Wo stehe ich?

Ich kann…

		gut	weniger gut	etwas	nicht mehr	Lerntipp!
1	den Umfang von Figuren ausrechnen.					→ S. 188
2	die Kantenlänge von Quadern berechnen.					→ S. 194
3	mit den Begriffen Summe, Differenz, Produkt und Quotient umgehen.					→ S. 190; 191
4	Rechenaufgaben mit Platzhaltern lösen.					→ S. 190; 191
5	Rechenregeln richtig anwenden.					→ S. 192

Überprüfe deine Einschätzung.

1 a) Berechne den Umfang.

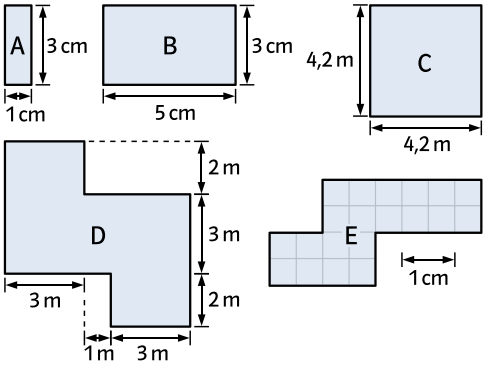

b) Der Umfang der Figur ist 12 cm. Wie lang ist die fehlende Seite?

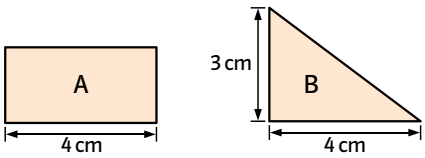

c) Der Umfang eines Quadrates beträgt 36 cm. Wie lang ist eine Seite?

2 Welche Kantenlänge hat die Figur?

a)

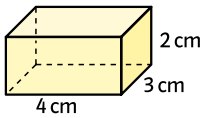

b)

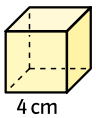

c) Die Kantenlänge eines Würfels beträgt 60 cm. Wie lang ist eine Kante?

3 a) Berechne die Summe aus 34 und 1,6.
b) Berechne den Quotienten aus 450 und 9.
c) Berechne das Produkt aus 12,5 und 2,4.
d) Berechne die Differenz aus $\frac{4}{5}$ und $\frac{2}{5}$.
e) Addiere 37 und 23.
f) Subtrahiere 10 von 87.
g) Multipliziere 2,5 mit 4.
h) Dividiere 56,7 durch 7.

4 Finde die Lösung.

Beispiel: 40 + ☐ = 55; ☐ = 15,
denn 40 + 15 = 55

a) 80 + ☐ = 116
b) ☐ + 34 = 112
c) 129 − ☐ = 76
d) ☐ − 34 = 56
e) 7 · ☐ = 105
f) ☐ · 13 = 117
g) 56 : ☐ = 8
h) ☐ : 11 = 9
i) ☐ · 9 = 2,7

5 Berechne im Heft.
a) 23 + 45 : 9
b) 3 · 9 − 23
c) 24 + 6 : 2 − 8
d) 384 − (290 − 4 · 20)
e) 1000 : 40 · 3 − 15 · 2
f) 210 + 7 · (163 − 43) − 150

→ Die Lösungen findest du auf Seite 203.

© Ernst Klett Verlag GmbH, Stuttgart 2012 | www.klett.de | Alle Rechte vorbehalten
Von dieser Druckvorlage ist die Vervielfältigung für den eigenen Unterrichtsgebrauch gestattet. Die Kopiergebühren sind abgegolten.

Schnittpunkt 6,
Niedersachsen
ISBN 978-3-12-742151-4