Standpunkt

Online-Link
zum Standpunkt
742151-0661

Wo stehe ich?

Ich kann…

		gut	weniger gut	etwas	nicht mehr	Lerntipp!
1	Mittelpunkt, Radius und Durchmesser in einen Kreis einzeichnen.					→ S. 68
2	mit dem Zirkel Kreise zeichnen.					→ S. 68
3	Kreismuster abzeichnen.					→ S. 68
4	mit dem Geodreieck Rechtecke zeichnen.					→ S. 188
5	Muster mit Geodreieck und Zirkel zeichnen.					→ S. 68; 188
6	Punkte im Quadratgitter ablesen und eintragen.					→ S. 188

Überprüfe deine Einschätzung.

1 Übertrage die Figur in dein Heft. Kennzeichne den Mittelpunkt mit M. Zeichne beim kleinen Kreis den Radius, beim größeren Kreis den Durchmesser ein.

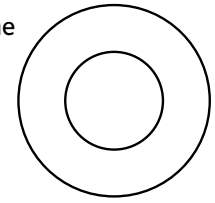

2 a) Zeichne mit dem Zirkel um den gleichen Mittelpunkt verschieden große Kreise.
b) Stelle deinen Zirkel auf 2 cm, 3 cm und 5 cm ein und verfahre ebenso.

3 Übertrage das Muster in dein Heft.



4 Zeichne auf ein weißes Blatt ein Quadrat mit der Seitenlänge 5 cm und ein Rechteck mit den Seitenlängen 5 cm und 2,5 cm.

5 Übertrage die Kreisfiguren.
a)

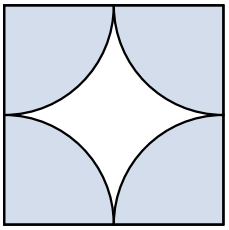

b)

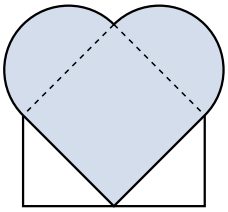

6 a) Übertrage die Zeichnung ins Heft. Zeichne eine Kopie des Schiffes, die mit $\overline{A'H'}$ beginnt.
b) Schreibe die neuen Rechts- und Hochwerte in dein Heft: A'(☐ | ☐); …

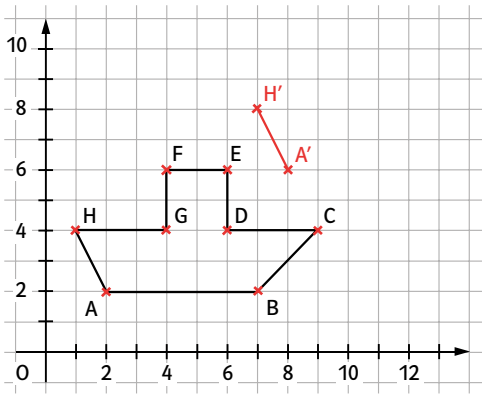

→ Die Lösungen findest du auf Seite 199.

© Ernst Klett Verlag GmbH, Stuttgart 2012 | www.klett.de | Alle Rechte vorbehalten
Von dieser Druckvorlage ist die Vervielfältigung für den eigenen Unterrichtsgebrauch gestattet. Die Kopiergebühren sind abgegolten.

Schnittpunkt 6,
Niedersachsen
ISBN 978-3-12-742151-4