Checkliste

Check-in
u92dz9

		Das kann ich.	Da bin ich fast sicher.	Da bin ich unsicher.	Das kann ich noch nicht.
1	**Ich kann Winkel messen.** → mathe live-Werkstatt, Seite 226				
2	**Ich kann Winkel zeichnen.** → mathe live-Werkstatt, Seite 227				
3	**Ich kann Symmetrieachsen in Figuren einzeichnen.** → mathe live-Werkstatt, Seite 228				
4	**Ich kann mit dem Zirkel und dem Geodreieck zeichnen.** → mathe live-Werkstatt, Seite 225, 226				
5	**Ich kann Punkte im Koordinatensystem eintragen.** → mathe live-Werkstatt, Seite 208				
6	**Ich kann mit dem Maßstab arbeiten.** → mathe live-Werkstatt, Seite 229				
		Ich helfe anderen.	Ich übe weiter.	Ich frage andere.	Ich frage eine Lehrperson.

© Ernst Klett Verlag GmbH, Stuttgart 2013 | www.klett.de | Alle Rechte vorbehalten
Von dieser Druckvorlage ist die Vervielfältigung für den eigenen Unterrichtsgebrauch gestattet. Die Kopiergebühren sind abgegolten.

Seite aus: mathe live 7
ISBN: 978-3-12-720530-5

Aufgaben

1 Winkel messen und zeichnen

Überprüfe, welche Winkel richtig, welche falsch gezeichnet wurden.

a)

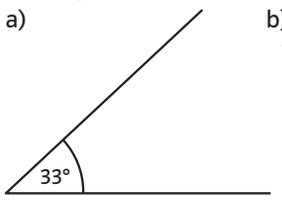

b)

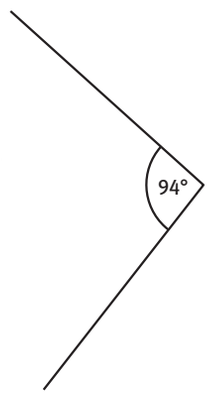

c)

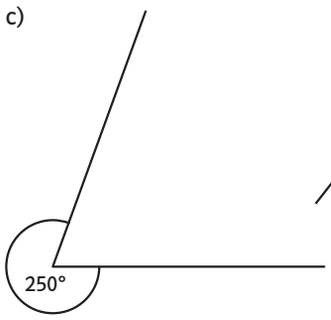

2 Zeichne die Winkel in dein Heft.

a) 25° b) 79°
c) 101° d) 200°

3 Symmetrieachsen einzeichnen

a) Zeichne die Figuren ins Heft.
Trage mögliche Symmetrieachsen ein.

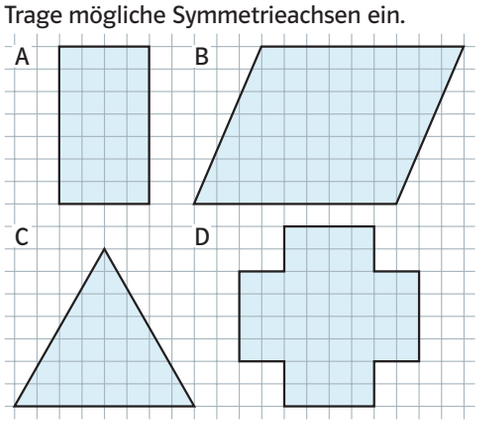

b) Wie viele Symmetrieachsen hat jede Figur?

→ Lösungen zum Check-in, Seite 262

4 Mit Zirkel und Geodreieck zeichnen

Zeichne die Figur in dein Heft. Der große Kreis soll einen Radius von 6 cm haben.

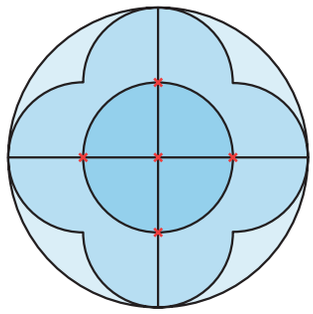

5 Punkte im Koordinatensystem

a) Zeichne ein Koordinatensystem. Trage die Punkte A(1|1), B(6|1) und C(5|4) ein.
b) Ergänze den Punkt D so, dass ein Parallelogramm entsteht.
c) Gib die Koordinaten von Punkt D an.

6 Mit dem Maßstab arbeiten

Im Lageplan unten ist eine Sporthalle eingezeichnet. Eine Kästchenlänge des Plans entspricht 6 m in Wirklichkeit.
a) Übertrage den Grundriss der Sporthalle in dein Heft.
b) Berechne alle Längen der Sporthalle.
c) Gib den Maßstab des Plans an.

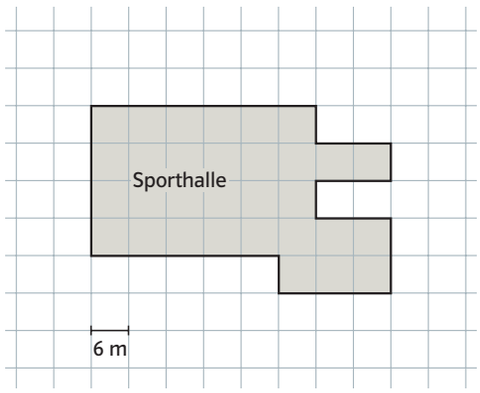

© Ernst Klett Verlag GmbH, Stuttgart 2013 | www.klett.de | Alle Rechte vorbehalten
Von dieser Druckvorlage ist die Vervielfältigung für den eigenen Unterrichtsgebrauch gestattet. Die Kopiergebühren sind abgegolten.

Seite aus: mathe live 7
ISBN: 978-3-12-720530-5